Pobrano z arkusze24.pl

Arkusz zawiera informacje prawnie chronione do momentu rozpoczęcia egzaminu

Układ graficzny © CKE 2020

CENTRALNA KOMISJA EGZAMINACYJNA

Nazwa kwalifikacji: **Prowadzenie działalności handlowej**
Oznaczenie kwalifikacji: **A.22**
Wersja arkusza: **SG**

A.22-SG-21.01
Czas trwania egzaminu: **60 minut**

EGZAMIN POTWIERDZAJĄCY KWALIFIKACJE W ZAWODZIE
Rok 2021
CZĘŚĆ PISEMNA

PODSTAWA PROGRAMOWA 2012

Instrukcja dla zdającego

1. Sprawdź, czy arkusz egzaminacyjny zawiera 13 stron. Ewentualny brak stron lub inne usterki zgłoś przewodniczącemu zespołu nadzorującego.
2. Do arkusza dołączona jest KARTA ODPOWIEDZI, na której w oznaczonych miejscach:
   – wpisz oznaczenie kwalifikacji,
   – zamaluj kratkę z oznaczeniem wersji arkusza,
   – wpisz swój numer PESEL*,
   – wpisz swoją datę urodzenia,
   – przyklej naklejkę ze swoim numerem PESEL.
3. Arkusz egzaminacyjny zawiera test składający się z 40 zadań.
4. Za każde poprawnie rozwiązane zadanie możesz uzyskać 1 punkt.
5. Aby zdać część pisemną egzaminu musisz uzyskać co najmniej 20 punktów.
6. Czytaj uważnie wszystkie zadania.
7. Rozwiązania zaznaczaj na KARCIE ODPOWIEDZI długopisem lub piórem z czarnym tuszem/atramentem.
8. Do każdego zadania podane są cztery możliwe odpowiedzi: A, B, C, D. Odpowiada im następujący układ kratek w KARCIE ODPOWIEDZI:

9. Tylko jedna odpowiedź jest poprawna.
10. Wybierz właściwą odpowiedź i zamaluj kratkę z odpowiadającą jej literą – np., gdy wybrałeś odpowiedź „A”:

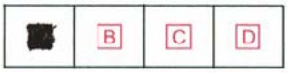

11. Staraj się wyraźnie zaznaczać odpowiedzi. Jeżeli się pomylisz i błędnie zaznaczysz odpowiedź, otocz ją kółkiem i zaznacz odpowiedź, którą uważasz za poprawną, np.

12. Po rozwiązaniu testu sprawdź, czy zaznaczyłeś wszystkie odpowiedzi na KARCIE ODPOWIEDZI i wprowadziłeś wszystkie dane, o których mowa w punkcie 2 tej instrukcji.

Pamiętaj, że oddajesz przewodniczącemu zespołu nadzorującego tylko KARTĘ ODPOWIEDZI.

Powodzenia!

** w przypadku braku numeru PESEL – seria i numer paszportu lub innego dokumentu potwierdzającego tożsamość*

Pobrano z arkusze24.pl

Zadanie 1.

Struktura zbiorowości odbiorców

Miesięczne dochody gospodarstw domowych w przeliczeniu na 1 członka w zł	Wskaźnik struktury w %	Grupa docelowa
1001-2000	45	K
2001-4000	15	X
4001-6000	38	Y
6001-8000	2	Z

Na podstawie informacji zawartych w tabeli ustal, do której grupy docelowej odbiorców w pierwszej kolejności, przedsiębiorstwo handlowe powinno skierować ofertę wysokiej klasy towarów wybieralnych.

A. K
B. X
C. Y
D. Z

Zadanie 2.

Schemat. Kanały dystrybucji towaru x

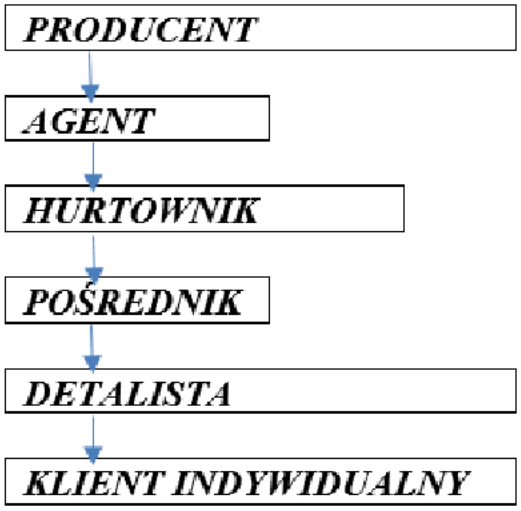

Zamieszczony schemat przedstawia kanał dystrybucji, z którego może skorzystać producent

A. papieru ksero.
B. świeżego pieczywa.
C. paliwa przemysłowego.
D. ubrań szytych na miarę.

Zadanie 3.

Które z wymienionych narzędzi promocji sprzedaży powinna wykorzystać hurtownia artykułów biurowych kierując swoją ofertę do sklepów papierniczych?

A. Loterie.
B. Kupony konkursowe.
C. Pokazy i demonstracje.
D. Bezpłatne egzemplarze towarów.

Pobrano z arkusze24.pl

Zadanie 4.

Który z wymienionych czynników analizy SWOT może stanowić zagrożenie dla funkcjonowania hurtowni artykułów RTV?

A. Rozwój branży na rynku.
B. Polityka cenowa konkurencji.
C. Różnorodność oferowanych produktów.
D. Brak wystarczającej wewnętrznej infrastruktury.

Zadanie 5.

Poziom zapasów i wielkość sprzedaży towaru

Sprzedaż w grudniu 2020 r. w szt.	Zapas początkowy na dzień 1.01.2021 r. w szt.	Planowany zapas końcowy na dzień 31.01.2021 r. w szt.	Ilość towarów do uzupełnienia w szt.
230	150	170	?

Na podstawie informacji zawartych w tabeli ustal, o jaką ilość towaru należy uzupełnić stan magazynowy w przedsiębiorstwie handlowym w miesiącu styczniu, jeżeli prognoza sprzedaży na ten miesiąc wskazuje wzrost o 10% względem grudnia.

A. 210 szt.
B. 233 szt.
C. 250 szt.
D. 273 szt.

Zadanie 6.

Sprzedaż napojów chłodzących przez przedsiębiorstwo handlowe w II kwartale wyniosła 2400 litrów i była równomiernie rozłożona w każdym miesiącu. Jaką minimalną ilość napojów chłodzących powinno zabezpieczyć kierownictwo przedsiębiorstwa na lipiec, jeżeli prognoza sprzedaży zakłada jej wzrost w miesiącach wakacyjnych o 30%?

A. 780 litrów
B. 1 040 litrów
C. 1 846 litrów
D. 3 120 litrów

Pobrano z arkusze24.pl

Zadanie 7.

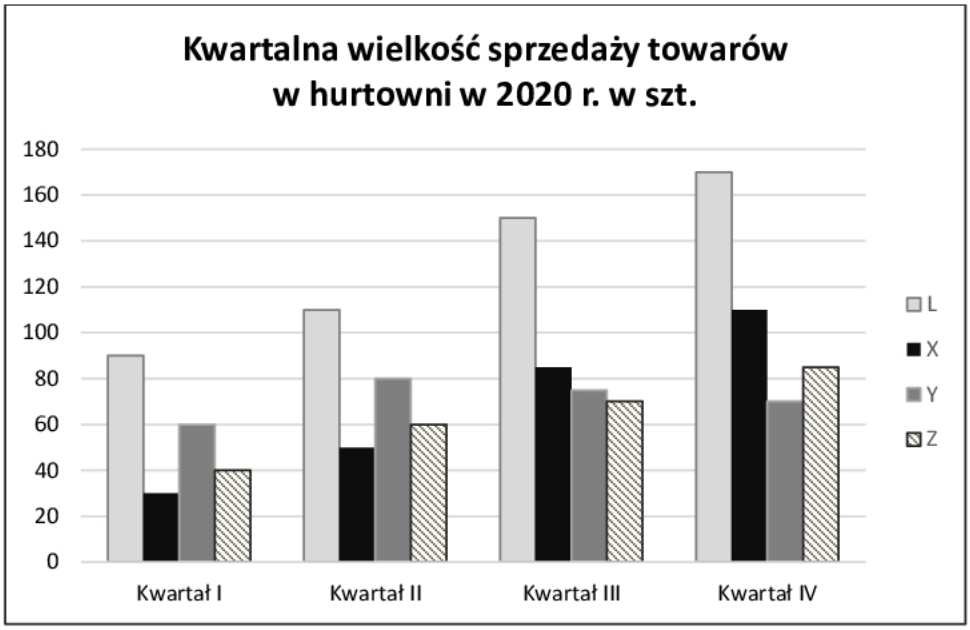

Na podstawie zamieszczonego wykresu kwartalnej wielkości sprzedaży wskaż towar, którego zapas powinien ograniczyć właściciel hurtowni.

A. L
B. X
C. Y
D. Z

Zadanie 8.

Najpopularniejszą wśród suplementów diety jest marka K – jest ona preferowana przez ponad połowę nabywców tego typu produktów i osiąga udział w rynku rzędu 55%. Liczącymi się konkurentami są ponadto marki L (udział w rynku 18%), M (12%) Łączny udział pozostałych marek wynosi 15%. Dominująca marka charakteryzuje się bardzo dużą aktywnością związaną z polityką produktową – systematycznie wprowadza nowe wersje produktu. Cechują ją jednak najwyższe ceny, związane między innymi z kosztami bardzo intensywnej reklamy w środkach masowego przekazu (telewizja, radio, prasa).

Wskaż, w której części planu marketingowego należy umieścić fragment tekstu zawarty w ramce.

A. Streszczenie.
B. Analiza sprzedaży.
C. Analiza konkurencji.
D. Strategia marketingowa

Zadanie 9.

Którą z wymienionych strategii ustalania cen powinno zastosować przedsiębiorstwo handlowe, jeżeli jego celem jest dostosowanie cen oferowanych towarów do cen towarów oferowanych przez konkurentów?

A. Kosztową.
B. Promocyjną.
C. Adaptacyjną.
D. Penetracyjną.

Pobrano z arkusze24.pl

Zadanie 10.

Fragment Polskiej Klasyfikacji Działalności 2007

DZIAŁ	GRUPA			KLASA	PODKLASA	NAZWA GRUPOWANIA
		SEKCJA G HANDEL HURTOWY I DETALICZNY; NAPRAWA POJAZDÓW SAMOCHODOWYCH, WŁĄCZAJĄC MOTOCYKLE				
47	**47.1**					**Sprzedaż detaliczna pozostałych wyrobów prowadzona w wyspecjalizowanych sklepach (wybrane pozycje)**
				47.11	47.11.Z	Sprzedaż detaliczna prowadzona w niewyspecjalizowanych sklepach z przewagą żywności, napojów i wyrobów tytoniowych
				47.19	47.19.Z	Pozostała sprzedaż detaliczna prowadzona w niewyspecjalizowanych sklepach
				47.21	47.21.Z	Sprzedaż detaliczna owoców i warzyw prowadzona w wyspecjalizowanych sklepach
				47.29	47.29.Z	Sprzedaż detaliczna pozostałej żywności prowadzona w wyspecjalizowanych sklepach

Do której podklasy należy zaklasyfikować działalność sklepu oferującego jedynie zdrową żywność, zgodnie z przedstawionym fragmentem Polskiej Klasyfikacji Działalności?

A. 47.11.Z
B. 47.19.Z
C. 47.21.Z
D. 47.29.Z

Zadanie 11.

Którą z wymienionych strategii negocjacji powinien zastosować przedsiębiorca w warunkach istnienia presji czasowej, wysokiego prawdopodobieństwa kontaktów w najbliższym czasie oraz względnej równowagi sił negocjacyjnych?

A. Unikania.
B. Dominacji.
C. Łagodzenia.
D. Kompromisu.

Zadanie 12.

Nieobowiązkowym elementem umowy sprzedaży towaru jest informacja o

A. cenie.
B. zaliczkach.
C. stronach umowy.
D. przedmiocie sprzedaży.

Zadanie 13.

Oblicz cenę sprzedaży brutto towaru opodatkowanego stawką podatku VAT 23%, jeżeli cena zakupu netto wynosi 150,00 zł, a przedsiębiorstwo handlowe stosuje 20% marżę liczoną od ceny zakupu netto.

A. 184,50 zł
B. 221,40 zł
C. 230,63 zł
D. 272,32 zł

Pobrano z arkusze24.pl

Zadanie 14.

Oblicz cenę sprzedaży brutto towaru, jeżeli jego cena zakupu netto wynosi 51,00 zł, przedsiębiorstwo handlowe nalicza marżę w wysokości 15% liczoną od ceny sprzedaży netto, a towar objęty jest 23% stawką podatku VAT.

A. 58,65 zł
B. 62,73 zł
C. 72,14 zł
D. 73,80 zł

Zadanie 15.

Zestawienie informacji dotyczących warunków sprzedaży oferowanych przez czterech dostawców

Warunki dostawy	Dostawca W	Dostawca X	Dostawca Y	Dostawca Z
Cena jednostkowa towaru w zł	3,00 zł	3,40 zł	3,55 zł	3,60 zł
Rabat w %	1,5% przy zakupie powyżej 300 zł	1,5% przy zakupie powyżej 300 zł	2% przy zakupie powyżej 300 zł	2 % przy zakupie powyżej 300 zł
Koszt transportu w zł	60,00 zł	40,00 zł	bezpłatny	bezpłatny

Na podstawie zamieszczonych w tabeli warunków sprzedaży, wskaż dostawcę, który przedstawił najkorzystniejszą ofertę przy zamówieniu 100 szt. towaru.

A. Dostawca W
B. Dostawca X
C. Dostawca Y
D. Dostawca Z

Zadanie 16.

Które z wymienionych artykułów należy przechowywać w pomieszczeniach o wilgotności względnej 90%?

A. Mąka.
B. Kasze.
C. Słodycze.
D. Mrożonki.

Zadanie 17.

Który dokument magazynowy dokumentuje nieodpłatne przekazanie towarów na cele charytatywne w formie darowizny?

A. Zw – Zwrot wewnętrzny.
B. Rw – Rozchód wewnętrzny.
C. Wz – Wydanie na zewnątrz.
D. Mm – Przesunięcie międzymagazynowe.

Pobrano z arkusze24.pl

Zadanie 18.

Zapotrzebowanie na towar X w szt.			
Kwartał I	Kwartał II	Kwartał III	Kwartał IV
500	600	720	?

Na podstawie zamieszczonych w tabeli danych ustal przewidywane zapotrzebowanie na towar X w IV kwartale, zakładając taki sam procentowy przyrost zapotrzebowania, jak w poprzednich kwartałach.

A. 820 szt.
B. 840 szt.
C. 864 szt.
D. 946 szt.

Zadanie 19.

Który dokument należy sporządzić w przypadku stwierdzenia podczas odbioru, niezgodności ilości dostarczonych towarów z zamówieniem?

A. Protokół różnic.
B. Specyfikację dostawy.
C. Pz – przyjęcie z zewnątrz.
D. Wz – wydanie na zewnątrz.

Zadanie 20.

Do której kategorii archiwalnej należą faktury sprzedaży w przedsiębiorstwie handlowym?

A. B2
B. B3
C. B5
D. B10

Zadanie 21.

Który z wymienionych podmiotów podczas dochodzenia roszczeń z tytułu rękojmi ponosi koszty dostarczenia do miejsca wskazanego w umowie, wadliwego towaru zakupionego na kredyt?

A. Bank.
B. Producent.
C. Konsument.
D. Sprzedawca.

Zadanie 22.

Która z zasad rachunkowości zakłada, że działalność jednostek ma być ujęta w wyznaczonych jednostkach czasu, np. miesiąc, rok obrotowy?

A. Ciągłości.
B. Istotności.
C. Memoriału.
D. Periodyzacji.

Pobrano z arkusze24.pl

Zadanie 23.

Obrót kredytowy konta syntetycznego jest równy sumie

A. sald debetowych wszystkich kont analitycznych.
B. sald kredytowych wszystkich kont analitycznych.
C. obrotów debetowych wszystkich kont analitycznych.
D. obrotów kredytowych wszystkich kont analitycznych.

Zadanie 24.

Hurtownia BIG-ART sp. z o.o. **ul. Miła 11** **50-310 Wrocław** **NIP 7012372403**	**KASA WYPŁACI** **KW nr 1/11/2020**		
Komu: **Karol Witkowski** **Oławska 23/7** **50-123 Wrocław**	**Wrocław 20.11.2020 r.** miejscowość, data		
	Ma Kasa		**Winien Konto**
Tytułem:	**zł**	**gr**	**Numer**
Podróż służbowa Polecenie wyjazdu nr 8/11/2020	**124**	**00**	
RAZEM	**124**	**00**	
Słownie zł: ***sto dwadzieścia cztery 00/100***			

Sporządził	. Zatwierdził	Rap. Kasowy Nr 11/2020 Poz.....2.....	Kwotę powyższą otrzymałem
Beata Grąd	***Adam Adach***		***Jan Kowalski***

Wskaż dekret operacji gospodarczej udokumentowanej przedstawionym dowodem księgowym wystawionym w związku z wypłatą pracownikowi zaliczki na podróż służbową.

A. Dt Pozostałe rozrachunki z pracownikami 124,00 zł, Ct Kasa 124,00 zł.
B. Dt Kasa 124,00 zł, Ct Pozostałe rozrachunki z pracownikami 124,00 zł.
C. Dt Pozostałe rozrachunki z pracownikami 124,00 zł, Ct Rachunek bieżący124,00 zł.
D. Dt Rachunek bieżący 124,00 zł, Ct Pozostałe rozrachunki z pracownikami 124,00 zł.

Pobrano z arkusze24.pl

Zadanie 25.

Nabywca	**Dostawca**	**Miejsce wystawienia** Kluczbork
Hurtownia SKŁADAK sp. z o.o. ul. Mickiewicza 10 46-200 Kluczbork NIP: 573-21-57-243	Przedsiębiorstwo Produkcyjne KARAT sp. z o.o. ul. Grunwaldzka 1 46-200 Kluczbork, NIP: 7510002415	**Data wystawienia** 23.11.2020

PZ - Przyjęcie zewnętrzne 6/11/2020

Lp.	**Nazwa**	**ilość**	**j.m.**	**Cena**	**Wartość**
1.	Rower sportowy	10	szt.	720,00	7 200,00
2.	Hulajnoga	20	szt.	55,00	1 100,00
Słownie: osiem tysięcy trzysta zł 00/100				**Razem**	**8 300,00**
Wystawiła *Ewa Jasińska*			*Odebrał* *Tomasz Graczyk*		

Operację gospodarczą udokumentowaną przedstawionym dowodem księgowym należy zaksięgować na kontach księgowych

A. Dt *Towary,* Ct *Rozliczenie zakupu.*
B. Dt *Rozliczenie zakupu*, Ct *Towary.*
C. Dt *Rozliczenie zakupu*, Ct *Rozrachunki z dostawcami.*
D. Dt *Rozrachunki z dostawcami*, Ct *Rozliczenie zakupu.*

Zadanie 26.

Wynik finansowy

Dt	Ct	
5680,00	522,00	
320,00	340,00	
180,00	211,00	
2740,00	400,00	
8920,00	1473,00	
	7447,00	Sk
8920	8920	

Przedstawione zapisy na koncie księgowym *Wynik finansowy* wskazują na

A. stratę w wysokości 1473,00 zł.
B. stratę w wysokości 7447,00 zł.
C. zysk netto w wysokości 1473,00 zł.
D. zysk netto w wysokości 7447,00 zł.

Pobrano z arkusze24.pl

Zadanie 27.

Wycena rozchodu zapasów metodą FIFO polega na wycenie rozchodu począwszy od dostawy przyjętej do magazynu jako

A. ostatniej.
B. pierwszej.
C. najtańszej.
D. najdroższej.

Zadanie 28.

Zestawienie informacji na temat dostaw towaru

Dostawa	Ilość (szt.)	Cena za 1 szt. (zł)	Wartość dostawy (zł)
2.11.2020	40	10,00	400,00
9.11.2020	90	9,00	81,00
16.11.2020	70	11,00	770,00
Razem	200	x	1980,00

Uwzględniając ceny nabycia towarów przedstawione w tabeli, dokonaj wyceny wydanych do sprzedaży 100 szt. towarów stosując metodę cen przeciętnych.

A. 660,00 zł
B. 990,00 zł
C. 1 000,00 zł
D. 1 100,00 zł

Zadanie 29.

Hurtownia sprzedała w listopadzie 100 szt. talerzy w cenie netto 7,50 zł/szt., za które otrzymała zapłatę do końca miesiąca oraz 50 szt. talerzy w cenie netto 8,00 zł/szt. z terminem płatności w grudniu. Ustal wielkość przychodu netto hurtowni ze sprzedaży talerzy w listopadzie.

A. 400,00 zł
B. 575,00 zł
C. 750,00 zł
D. 1 150,00 zł

Zadanie 30.

Wartość zabawek przekazanych dla Domu Dziecka tytułem darowizny stanowi dla hurtowni zabawek

A. koszty finansowe.
B. przychody finansowe.
C. pozostałe koszty operacyjne.
D. pozostałe przychody operacyjne.

Zadanie 31.

Oblicz cenę detaliczną netto pralki, jeżeli wartość netto zakupionych w hurtowni 10 pralek wynosi 9000,00 zł. Przeciętne koszty handlowe ustalone przez sklep detaliczny wynoszą 900,00 zł, a oczekiwany zysk stanowi 15% ceny zakupu.

A. 1 035,00 zł
B. 1 125,00 zł
C. 1 200,00 zł
D. 1 575,00 zł

Pobrano z arkusze24.pl

Zadanie 32.

Wyniki inwentaryzacji w hurtowni spożywczej

Nazwa towaru	J.m.	Cena w zł	Ilość towaru wg spisu z natury	Ilość towaru wg zapisów w księgach rachunkowych
Jogurt naturalny	szt.	1,90	500	470
Jogurt truskawkowy	szt.	2,20	450	470
Jogurt malinowy	szt.	2,30	600	610

Na podstawie danych przedstawionych w tabeli ustal wartość różnic inwentaryzacyjnych.

A. Nadwyżka jogurtu truskawkowego 44,00 zł; nadwyżka jogurtu malinowego 23,00 zł; niedobór jogurtu naturalnego 57,00 zł.
B. Niedobór jogurtu truskawkowego 44,00 zł; niedobór jogurtu malinowego 23,00 zł; nadwyżka jogurtu naturalnego 57,00 zł.
C. Nadwyżka jogurtu truskawkowego 44,00 zł; niedobór jogurtu malinowego 23,00 zł; niedobór jogurtu naturalnego 57,00 zł.
D. Niedobór jogurtu truskawkowego 44,00 zł; nadwyżka jogurtu malinowego 23,00 zł; nadwyżka jogurtu naturalnego 57,00 zł.

Zadanie 33.

Stan wybranych kont księgowych na dzień 31.12.2020 r. w zł

Przychody ze sprzedaży towarów	16 200,00
Wartość sprzedanych towarów w cenie zakupu	10 900,00
Koszty handlowe	3 160,00
Pozostałe przychody operacyjne	350,00
Pozostałe koszty operacyjne	310,00
Przychody finansowe	130,00
Koszty finansowe	170,00

Na podstawie przedstawionych w tabeli stanów wybranych kont księgowych przedsiębiorstwa handlowego na dzień 31.12.2020 r. ustal wynik finansowy brutto metodą statystyczną.

A. 1 660,00 zł
B. 2 140,00 zł
C. 23 940,00 zł
D. 31 220,00 zł

Zadanie 34.

Oblicz miesięczne wynagrodzenie brutto pracownika hurtowni wynagradzanego w systemie czasowo-prowizyjnym, jeżeli jego płaca zasadnicza brutto wynosi 2 600,00 zł, co stanowi 24% udział w płacach ogółem. Miesięczny obrót hurtowni wynosi 500 000,00 zł, a stawka prowizyjna 0,15%. Prowizja dzielona jest wśród pracowników zgodnie z udziałem płacy zasadniczej danego pracownika w płacach ogółem.

A. 2 780,00 zł
B. 2 992,00 zł
C. 3 224,00 zł
D. 3 350,00 zł

Pobrano z arkusze24.pl

Zadanie 35.

Jaką kwotę podatku od towarów i usług powinno odprowadzić przedsiębiorstwo handlowe do urzędu skarbowego tytułem zobowiązania podatkowego, jeżeli sprzedało 100 szt. towarów w cenie 24,60 zł brutto? Sprzedaż opodatkowana jest 23% stawką podatku VAT, a podatek VAT naliczony wyniósł 120,00 zł.

A. 120,00 zł
B. 340,00 zł
C. 460,00 zł
D. 580,00 zł

Zadanie 36.

Hurtownia CORA sp. z o.o. ul. Piękna 4 55-200 Oława NIP 7012372403			**RAPORT KASOWY NR 11/2020** za okres **od 01.11.2020 do 30.11.2020**		
Poz.	Data	Dowód	Treść	Przychód	Rozchód
1	02.11.	KP 1/2020	Wpłata gotówki pobranej kartą płatniczą	1 250,00	
2	06.11.	KW 1/2020	Zapłata za fakturę 45/2020		1 000,00
3	26.11.	KP 2/2020	Rozliczenie zaliczki Jan Kowalski	1 000,00	
Wystawił			Obroty		
Anna Smaka			Stan poprzedni	**15 846,00**	**----------**
Zatwierdził			Stan obecny	**---------**	
Jan Malinowski			SUMA		

Na podstawie zapisów w przedstawionym raporcie kasowym nr 11/2020, oblicz stan gotówki w kasie na dzień 30.11.2020 r.

A. 1 250,00 zł
B. 2 250,00 zł
C. 17 096,00 zł
D. 18 096,00 zł

Pobrano z arkusze24.pl

Zadanie 37.

Fragment faktury zakupu

Lp.	Nazwa towaru lub usługi	Podst. prawna zwoln.	J.m.	Ilość	Cena jedn. netto w zł	Wartość netto w zł	Stawka VAT w %	Kwota VAT w zł	Wartość brutto w zł
1	Syrop malinowy 0,25 l		szt.	100	2,30	230,00	23	52,90	282,90
2	Syrop jagodowy 0,3 l		szt.	120	2,45	294,00	23	67,62	361,62
Razem do zapłaty: 644,52 zł					**Razem**	524,00	x	120,52	644,52
Słownie złotych: sześćset czterdzieści cztery 52/100					w tym:	524,00	23	120,52	644,52

W hurtowni wszystkie dokumenty magazynowe są wystawiane i wyceniane w cenach zakupu netto. Na podstawie fragmentu faktury zakupu ustal wartość dowodu Pz *Przyjęcie zewnętrzne*, na podstawie którego dokonano przyjęcia towarów do magazynu.

A. 120,52 zł
B. 524,00 zł
C. 644,52 zł
D. 765,04 zł

Zadanie 38.

Wzrost wskaźnika rentowności sprzedaży w przedsiębiorstwie handlowym z 11% do 16% oznacza, że w przedsiębiorstwie na jedną złotówkę

A. przychodu ze sprzedaży przypada 0,05 zł zysku.
B. zysku przypada 0,05 zł przychodów ze sprzedaży.
C. przychodu ze sprzedaży przypada o 0,05 zł więcej zysku.
D. zysku przypada o 0,05 zł więcej przychodów ze sprzedaży.

Zadanie 39.

W przedsiębiorstwie handlowym wskaźnik rotacji należności wynosi 14 dni, wskaźnik rotacji zobowiązań 30 dni. Oznacza to, że

A. powiększa się zadłużenie przedsiębiorstwa.
B. rośnie zapotrzebowanie na kapitał obrotowy netto.
C. zobowiązania trzeba spłacić przed spływem należności od odbiorców.
D. należności z tytułu sprzedaży towarów wpływają szybciej niż trwa spłata zobowiązań.

Zadanie 40.

Ustal wielkość sprzedaży w przedsiębiorstwie handlowym w styczniu, jeżeli w grudniu wskaźnik obrotu zapasami wyniósł 4, zapas przeciętny 60 000,00 zł i wielkości te nie ulegną zmianie w kolejnym miesiącu.

A. 15 000,00 zł
B. 60 000,00 zł
C. 120 000,00 zł
D. 240 000,00 zł